WYDAWNICTWO JUKA

Sprawdzian wiadomości i umiejętności z edukacji matematycznej – klasa III (październik)

.....

imię i nazwisko

1. Wpisz pod każdą z liczb:

   - liczbę większą o 6.

58	66	72	39	45	27

   - liczbę mniejszą o 8.

81	73	44	57	92	66

12p.

2. Przedstaw liczbę 24 jako sumę :

   - dwóch składników
   - trzech składników

4p.

3. Rozwiąż zadanie.

Tomek kupił ćwierć kilograma sera i o 7 dekagramów więcej kurek.

Ile kurek kupił Tomek?

Odpowiedź:

4p.

4. Wstaw w kratki brakujące liczby.

+ 7 = 92 54 + = 63 + 8 = 81

48 - = 39 - 6 = 77 94 - = 89

6p.

5. Oblicz podane działania według wzoru, dopełniając do pełnej dziesiątki.

34 – 5= 34 - 4 – 1= 30 – 1=	48 + 7= 48 + 2 + 5 = 50 + 5 = ...
53 – 9 = ...	27 + 8 = ...
67 – 8 = ...	56 + 6 = ...
72 – 7 = ...	83 + 9 = ...

6p.

6. Przeczytaj zadanie. Zapisz pytanie, rozwiązanie i odpowiedź.

Klasy IIIa i IIIb wybrały się na wycieczkę w Góry Świętokrzyskie.

Z klasy IIIa pojechało 28 uczniów, a z klasy IIIb o 9 uczniów mniej.

4p.

Pytanie:

Rozwiązanie:

Odpowiedź:

2. Dorysuj wskazówki na tarczach zegarów zgodnie z zapisaną pod nimi godziną.

4p.

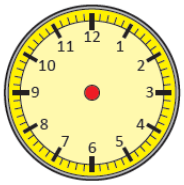

za kwadrans piąta

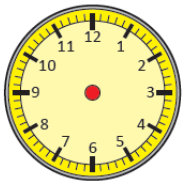

piętnasta dwadzieścia

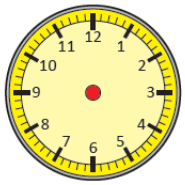

kwadrans po szesnastej

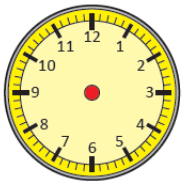

wpół do jedenastej

Ogólna liczba punktów 40p.

Ocena nauczyciela: .....